北京市西城区 2023—2024 学年度第二学期期末试卷

三年级数学

学校_____ 班级_____ 姓名_____ 学号_____ 成绩_____

注意事项：1. 答题前，请同学们写清学校、班级、姓名、学号。 2. 本卷共 3 页，答题时间为 60 分钟。 3. 老师不讲题、不讲题。 4. 书写字迹要清楚，卷面要整洁。

装订线

一、下面每题都有四个选项，其中只有一个是正确的，请将正确选项的字母填在括号里。（共 16 分）

1. 一张单人床的面积大约是 2（　　）。

A. 米　　B. 平方厘米　　C. 平方分米　　D. 平方米

2. 傍晚，太阳在西方。小亮面向太阳站立，此时他背对着的方向是（　　）。

A. 东　　B. 南　　C. 西　　D. 北

3. 下面是四位同学投沙包的成绩。

姓名	刘力	李明	王冬	张红
成绩 / 米	9.3	8.5	9.8	8.9

投的最远的同学是（　　）。

A. 刘力　　B. 李明　　C. 王冬　　D. 张红

4. 2024 年的二月有（　　）天。

A. 28　　B. 29　　C. 30　　D. 31

5. 丽丽去商店购物，付给售货员 1 张 10 元，3 张 1 元和 1 张 5 角钱，她付给售货员的钱用小数表示是（　　）元。

A. 1.35　　B. 10.35　　C. 13.05　　D. 13.5

6. 公园门前有一个花坛，每行摆 13 盆花，共摆 12 行。用下面的竖式计算花的总盆数，竖式中箭头所指的部分表示（　　）。

```
  1 3
× 1 2
  2 6
[1 3]←
1 5 6
```

A. 1 行摆的盆数

B. 2 行摆的盆数

C. 10 行摆的盆数

D. 12 行摆的盆数

7. 比较下面两个图形，正确的说法是（　　）。

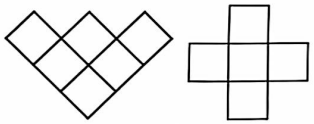

①　　②

（每个小正方形的边长是 1 厘米）

A. 周长相等，①号图形面积大

B. 周长相等，②号图形面积大

C. 周长不相等，①号图形面积大

D. 周长不相等，②号图形面积大

8. 两名工人分别将三根一样长的铁棍焊接在一起，焊接方式如下图所示。方式一的总长度是 3.6 米，方式二的总长度是（　　）米。

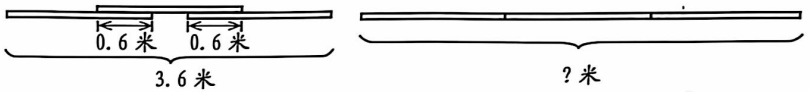

方式一　　方式二

A. 4.2　　B. 4.8　　C. 5.4　　D. 6

二、填空。（共 12 分）

1. 300 平方厘米 =（　　）平方分米　　3 日 =（　　）时

2. 7 分米是 $\frac{(\quad)}{(\quad)}$ 米，写成小数是（　　）米。

3. 2024 年 7 月即将在法国巴黎举行第 33 届夏季奥林匹克运动会。

2024 年 7 月

日	一	二	三	四	五	六
	1	2	3	4	5	6
7	8	9	10	11	12	13
14	15	16	17	18	19	20
21	22	23	24	25	26	27

开幕时间

2024 年 8 月

日	一	二	三	四	五	六
11	12	13	14	15	16	17
18	19	20	21	22	23	24
25	26	27	28	29	30	31

闭幕时间

(1) 把 7 月和 8 月的月历补充完整。

(2) 从开幕到闭幕一共有（　　）天。

开幕当天和闭幕当天也要算！

4. 在一个长方形中摆了一些小正方形，如右图。如果每个 ▢ 代表 1 平方厘米，那么这个长方形的面积是（　　）平方厘米。



5.

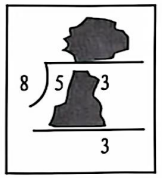

晨晨不小心把墨水滴到了竖式上，如左图所示。请你根据竖式上的信息，在下面的括号里填出被除数和商。

（　　）÷ 8 =（　　）……3

三年级数学

学校_____ 班级_____ 姓名_____ 学号_____ 成绩_____

注意事项：1. 答题前，请同学们写清学校、班级、姓名、学号。 2. 本卷共 3 页，答题时间为 60 分钟。 3. 老师不读题、不讲题。 4. 书写字迹要清楚，卷面要整洁。

装订线 ☆ ☆ ☆ ☆ ☆ ☆ ☆ 装订线

6. 古人把一天（24 时）划分成十二个时段，每一个时段叫一个时辰，依次为子时、丑时、寅（yín）时、卯（mǎo）时、辰（chén）时、巳（sì）时、午时、未时、申时、酉（yǒu）时、戌（xū）时、亥（hài）时，全天共 12 个时辰，一个时辰相当于现在的 2 小时。如子时是 23 时至 1 时，丑时是 1 时至 3 时，寅时是 3 时至 5 时……后来，人们又把每个时辰分为八刻，一刻相当于现在的 15 分钟。

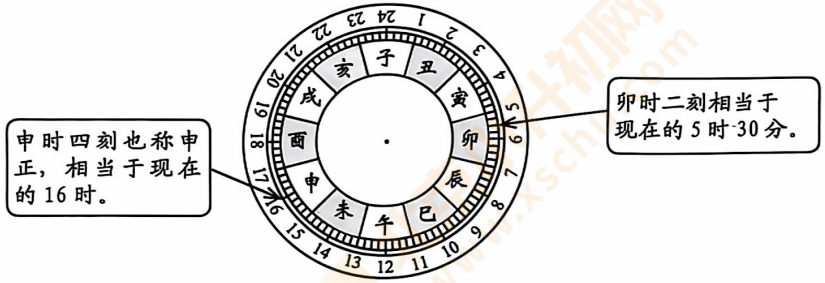

按照这样的计时方法，辰时相当于现在的（　　）时至（　　）时，辰时三刻相当于现在的（　　）时（　　）分。

三、按要求计算。（共 24 分）

1. 竖式计算（第(2) (4)题要验算）。

(1) 14.6 − 6.7 =　　(2) 391 ÷ 9 =

验算：

(3) 28 × 36 =　　(4) 742 ÷ 7 =

验算：

2. 脱式计算。

(1) 960 ÷ （127 − 119）　　(2) 283 + 16 × 25

四、按要求做。（共 6 分）

1. 在方格纸上按要求画图。

(1) 画一个长 8 厘米，宽 2 厘米的长方形。

(2) 画一个和这个长方形面积相等的正方形。



2. 北京鲁迅博物馆馆区位于北京市西城区阜成门内，右图是鲁迅博物馆馆区平面图。

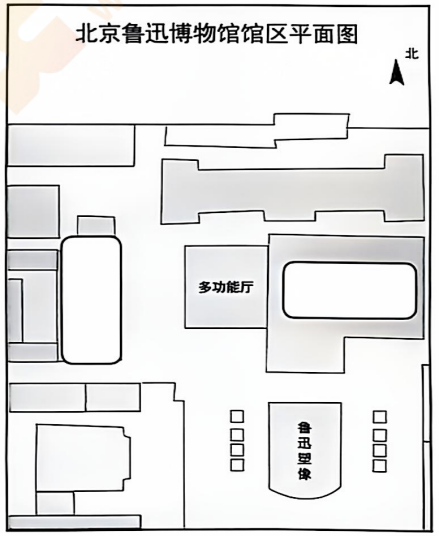

根据描述把“鲁迅故居”和“陈列厅”写在图中相应位置的 ▭ 中。

五、解决问题。（共 32 分）

1. 植树队有 3 个小组，要种 654 棵松树，平均每个小组要种多少棵松树？

三年级数学

学校_____ 班级_____ 姓名_____ 学号_____ 成绩_____

注意事项：1. 答题前，请同学们写清学校、班级、姓名、学号。 2. 本卷共3页，答题时间为60分钟。 3. 老师不读题、不讲题。 4. 书写字迹要清楚，卷面要整洁。

装订线

2. 在广州长隆野生动物世界生活着全球唯一的三胞胎大熊猫“萌萌”“帅帅”和“酷酷”。



大熊猫“酷酷”出生时的体重是多少克？

3. 消防安全关系到每个人的生命和财产安全，某小区开展了消防安全宣传活动。

(1) 宣传活动当天，王强要读一篇有987个字的消防安全宣传稿。他5分钟能读完吗？



结论：王强（　　）读完。（在括号里填“能”或“不能”）

思考过程：

(2)

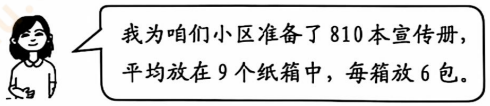

每包有几本宣传册？

(3) 物业为小区内的8栋住宅楼配备了灭火器，每栋楼有21层，每层配备4个灭火器，一共配备了多少个灭火器？

4. 中国剪纸是一种古老的民间艺术形式。剪一个右面的图案需要用一张边长3分米的正方形纸，现有一张长18分米，宽12分米的长方形纸，最多能剪几个这样的图案？

5. 跑步是一种简单有效的健身方式。在天坛公园沿着特定线路跑一圈，跑步轨迹会形成一只“大象”的图案，非常有趣。这个活动也被人们称为在天坛跑“大象”。

(1) 下图是王阿姨在天坛公园跑步时记录的信息。

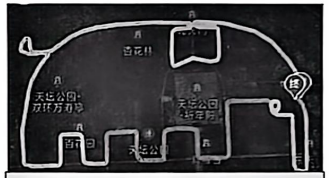

全程5.2千米　用时38分

王阿姨下午3:10开始跑步，跑步结束时间是下午（　　）时（　　）分，用24时计时法表示是（　　）时（　　）分。

(2) 李华和张力也定期参与在天坛跑“大象”活动，下面是他们两人5月份的跑步情况统计表（他们每次跑的路线相同）。

	5月2日	5月9日	5月16日	5月23日	5月30日
李华	42分	41分	40分	38分	37分
张力	40分	39分	43分	36分	38分

根据上表中的信息回答下面的问题。

① 李华5月9日跑步所用时间是（　　）分。

② 张力（　　）月（　　）日跑步所用时间最少。

③（　　）月（　　）日两人跑步所用时间相差最多，相差（　　）分。

④ 李华和张力报名参加了在天坛跑“大象”的长跑比赛，你认为在比赛中谁的成绩会更好一些？为什么？

我认为（　　）的成绩会更好一些。（在括号里填“李华”或“张力”）

因为：