2022-2023 学年第一学期期中学业水平检测

初一历史

2022 年 10 月

第一部分　单项选择题

（共 38 题，每题 2 分，共计 76 分）

1.对于久远的历史，考古发现为我们的研究提供了可靠的依据。考古工作者从北京人遗址发掘了大量人工打制的石器和烧骨、灰烬，最厚的灰烬达6米之多。据此你能得出的结论是，北京人（　　）

①会制造、使用工具② 能控制并长时间使用火 ③能饲养牲畜　④会制作陶器

A. ①②　　B. ③④　　C. ①③　　D. ②④

2.北京人是世界上最重要的原始人类之一。下列各项能够作为北京人存在证据的是（ ）

①北京人使用的石器

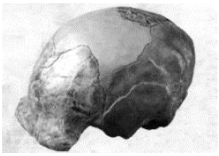

②北京人头盖骨化石

③北京人狩猎场景想象图

④北京人牙齿化石

A. ①②③　　B. ①③④　　C. ①②④　　D. ②③④

3.元谋人、北京人、山顶洞人都是我国境内著名的原始人类。获得他们生产生活的第一手资料，要通过（ ）

A. 神话传说　　B. 史书记载　　C. 学者推断　　D. 考古发掘

4. 中国是世界上发现古人类遗址最多的国家之一。属于元谋人、北京人和山顶洞人共同点的是（　　）

A.发现于黄河流域　　B. 都发掘出头盖骨化石

C.会制作工具　　D. 都懂得人工取火

5.考古发现是研究历史的重要依据。以下考古发现，能够帮助我们了解远古先民（　）



碳化的稻谷

骨耜

石磨盘（谷物加工）

A. 狩猎采集　　B. 制造瓷器　　C. 用牛耕地　　D. 从事农业

6.文物、遗址、遗迹是研究古人类活动的重要证据。下列资料可用于研究（　）



碳化粟粒

半地穴式圆形房屋复原图



人面鱼纹彩陶盆

A. 北京人的群居生活　　B. 河姆渡人的农业
C. 半坡人的生产生活　　D. 炎黄部落的农业

7.考古工作者在某原始居民遗址发现干栏式建筑遗迹，还发现大量稻谷、稻壳和稻草相互混杂，形成0.2-0.5米的堆积层。该遗址是（　）

A. 元谋人遗址　　B. 北京人遗址　　C. 河姆渡遗址　　D. 半坡遗址

8.原始农业出现的重要标志是（　　）
①农作物的出现
②家畜饲养
③聚落
④磨制石器
⑤城市的出现
A. ①②③④　　B. ①②③⑤　　C. ①③④⑤　　D. ②③④⑤

9.被人们尊奉为中华民族人文初祖的是（　）

A. 炎帝、尧　　B. 黄帝、尧　　C. 舜、禹　　D. 炎帝、黄帝

10.下图是某同学制作的一位传说人物的名片，这位人物是（　）
A. 黄帝　　B. 炎帝
C. 蚩尤　　D. 大禹

时间：五六千年前
地点：黄河流域
别名：轩辕氏、有熊氏
发明：建造宫室，制造船只，发明弓箭。

11. 下面对古代传说与历史事实的联系叙述正确的是（　　）
A. 远古传说是完全不可信的
B. 我们可以完全信赖远古传说
C. 历史事实是在远古传说的基础上提炼出来的
D. 远古传说有夸张,但也蕴藏着比较可靠的历史资料

12.右侧材料说明，华夏民族的形成具有的最主要特点是（　）
A. 错综复杂
B. 分散杂居
C. 扩张征服
D. 多元一体

华夏民族，非一族所成。太古以来，诸族错居，接触交通，各去小异而大同，渐化合以成一族之形，后世所谓诸夏是也。　　——梁启超

13.数轴记忆是学习历史的方法之一。下面是一位同学在复习中国古代某一历史时期政权更迭时制作的年代标尺，其中①处应该是（　　）

A. 夏朝建立　　B. 商朝建立　　C. 周朝建立　　D. 秦朝建立

14.从夏、商两朝的覆亡中,我们可以得到的历史教训是统治者应该(　　)

A. 重视教育　　B. 勤政爱民　　C. 发展经济　　D. 增强国力

15.2019 年 10 月，右图所示博物馆的开馆仪式在河南偃师举行。在这座博物馆中主要可以了解到（　　）

A. 炎帝和黄帝的发明创造
B. 我国第一个王朝的历史
C. 司母戊鼎的铸造工艺
D. 武王伐纣的历史故事

16.房山区琉璃河镇发现一座西周早期古城遗址和大量古墓，出土了带有“匽侯”(“匽”即“燕”，燕国的国君）铭文的青铜礼器，据此判定这里就是燕国都城故址。以上材料反映的是西周的（　　）

A. 禅让制　　B. 分封制　　C. 郡县制　　D. 均田制

17.历史学家对 1976 年出土的青铜器利簋进行研究，推断出武王灭商“牧野之战”的具体时间。这说明（　　）

A. 青铜器是研究历史的重要实物证据　　B. 利簋青铜器是西周最精美的青铜器
C. 西周时期诸侯争霸，王室衰落　　D. 利簋是研究西周历史的唯一史料

18.我国古代青铜器不仅种类丰富，数量众多，而且制作工艺高超。右图是迄今世界上出土的最重的青铜器,铸造于我国的(　　)

A. 夏朝
B. 商朝
C. 西周
D. 春秋

19.文物反映鲜活的历史，下列古代器物中，能印证商朝青铜器生产工艺高超的是（　　）

①司母戊鼎

②四羊方尊

③毛公鼎

④利簋

A. ①②　　B. ②③　　C. ③④　　D. ①④

20.刘明同学要绘制一张商朝文明成就的手抄报，下列内容可以入选的是（　）

① 司母戊鼎　　②楼车　　③四羊方尊　　④甲骨文

A. ①②③　　B. ②③④　　C. ①②④　　D. ①③④

21. “一片甲骨惊天下。”下列关于甲骨文表述正确的有（　　）
①甲骨文记载的内容涉及祭祀、战争、天文历法等
②甲骨文是刻在青铜器上的文字
③甲骨文是中国已发现的古代文字中年代最早、体系较为完整的文字
④甲骨文对中国文字的形成与发展有深远的影响
A. ①②③　　B. ②③④　　C. ①②④　　D. ①③④

22.春秋时期，社会经济有很大的发展。这一时期农业生产力水平提高的重要标志是（　）

A. 纺织业、煮盐业有所发展　　B. 金属货币被更多使用
C. 城市出现商品交换市场　　D. 铁制农具与牛耕出现

23.假如现在要拍摄一部反映“春秋五霸”的历史剧,下列哪一个历史人物不应该出现在该剧中(　　)

A. 周武王　　B. 齐桓公　　C. 晋文公　　D. 楚庄王

24.为了提高复习效率，小李同学绘制了一张知识结构图。空白处应填入（　　）

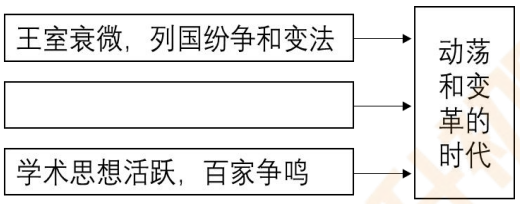

A. 夏朝成为我国第一个王朝
B. 商朝的盘庚迁殷
C. 周朝初年确立分封制
D. 铁器牛耕的使用及推广

25.史书记载，春秋初年的 170 多个诸侯国,到战国初期就只剩下十几个了。材料所反映的历史发展趋势是(　　)

A. 诸侯国的割据混战日益扩大　　B. 人民遭受的灾难更加深重
C. 历史向着统一的方向发展　　D. 封建制度正逐步确立起来

26.电影《赵氏孤儿》讲述了春秋时期晋国大夫赵氏因奸臣陷害而惨遭灭门后，医生程婴抚养赵氏孤儿长大并报仇雪恨的故事。看完电影后，小明查阅了“春秋争霸形势图”和“战国形势图”,发现在“战国形势图”中找不到晋国,这是由于战国初期发生了(　　)

A. 三家分晋　　B. 田氏代齐　　C. 晋楚争霸　　D. 战国七雄

27.春秋时期，鲁国朝贡周天子 7 次，而朝贡齐国却有 11 次，朝贡晋国 20 次。这说明（　）

A. 鲁国定期朝贡周天子　　B. 周王室地位下降
C. 鲁国与齐晋两国交好　　D. 鲁国与晋国接壤

28.春秋时期一些强大的诸侯国以“尊王攘夷”的名义进行征战，争夺霸主地位。“尊王攘夷”的实质是（　）

A. 尊崇周王室的正统地位　　B. 诸侯借此发展自己的势力
C. 顺应民族交融的历史趋势　　D. 证明争霸战争具有正义性

29.战国时期，商鞅变法为秦统一大业的实现奠定了基础。读右图，该变法发生在（　）

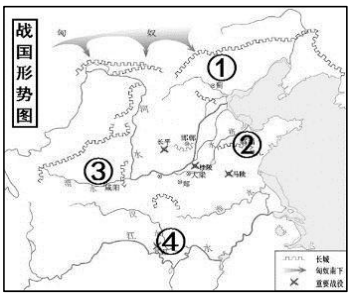

A. ①
B. ②
C. ③
D. ④

30.商鞅变法对秦国发展意义重大，在众多措施中最有利于加强中央集权的是（　）

A. 确立县制　　B. 奖励军功　　C. 奖励耕织　　D. 废除井田制

31.“命蜀守李冰奎（注：堵塞）江水作坝，穿二江以通船，灌三郡之田亩，使四川沃野千里，号为陆海。”材料中“奎江水”修建的工程是（　）

A. 都江堰　　B. 郑国渠　　C. 灵渠　　D. 大运河

32.某校七年级(3)班同学举行了一次“班级管理”的主题班会,李怡同学主张“制定严格的班规,对违反班规的同学严惩”。可能影响李怡同学主张的战国时期的思想家是（　）

A. 庄子　　B. 孟子　　C. 墨子　　D. 韩非

33.习近平主席曾用“为政以德，譬如北辰，居其所而众星拱之”劝勉官员多读书、修政德；用“吾日三省吾身”告诫官员反省自身、清廉务实；用“学而不思则罔，思而不学则殆”寄望官员多思考、多实践。这些引言均出自（　）

A. 《道德经》　　B. 《春秋》　　C. 《论语》　　D. 《孟子》

34.孔子是我国春秋时期伟大的思想家，下列说法体现其政治主张的是（　）

A. 己所不欲，勿施于人　　B. 三人行，必有我师焉
C. 为政以德，譬如北辰，居其所而众星共之　　D. 民为贵，社稷次之，君为轻

35.利用表格进行知识梳理是历史学习的重要方法。下表中的观点与学派对应有误的一项是（　）

选项	观点	学派
A	“兼相爱，交相利”	墨家
B	“民为贵，社稷次之，君为轻”	儒家
C	“道常无为而无不为”	道家
D	“以法为教”	兵家

36.关于“百家争鸣”的表述，正确的是（　）

①在社会急剧变化的历史背景下出现　②造就了一大批杰出的思想家
③促进了思想和学术的繁荣　④各个学派彼此对立，互不相容

A. ①②③　B. ②③④　C. ①②④　D. ①③④

37.对比下面两幅历史地图，可以看出这一时期的历史发展特征是（　）

春秋初期的诸侯国

战国形势图

A. 思想大繁荣　B. 生产大发展
C. 战乱中孕育统一　D. 井田制遭到破坏

38.某中学课题组在探究“春秋战国历史”的过程中搜集到下图所示信息，反应出春秋战国时期的阶段特征是（　）

政治：商鞅变法
经济：铁器牛耕的使用与推广
思想文化：百家争鸣

A. 社会大变革的时代　B. 统一国家的建立
C. 繁荣与开放的社会　D. 民族关系的发展

第二部分　非选择题

（共计 24 分）

39.（本题 24 分）中国古代制度的创新与改革推动历史进程的发展。

材料一

右图是在北京出土的青铜器“克盉（hé）”，里面的铭文记载说：周成王封克做匽（今北京地区）的诸侯，管理羌族、驭族……克进驻匽地，接收土地，平息动乱。

《史记》记载：“周武王之灭纣，封召公于北燕。”

（1）材料一提及到周朝的什么制度？（2 分）这一制度的作用？（4 分）

材料二　春秋战国时期，中国农业发生了重要的变革，我国的铁制农具至少在西周末年的周王畿已经用于农业生产。到战国中期以后，各种农业和手工业的工具已经普遍用铁制。牛耕也出现于春秋时期，战国时代已开始使用两牛牵引的犁。铁制农具的使用，使各国能兴修较大规模的水利工程。铁器牛耕出现后，出现了“深耕易耨”（“易”是快速的意思，“耨”是除草的意思）的局面，战国时代，一年两熟制已经普遍推广。

——摘编自高德步《中国经济简史》

（2）依据材料二回答：春秋战国时期，中国农业发生了怎样的重要变革？（4 分）依据材料二分析这种变革产生的影响。(2 分）

材料三　公元前四世纪，商鞅在秦孝公支持下进行变法。商鞅变法的主要内容包括：①废除旧贵族的世袭特权；②奖励耕织，生产粮食、布帛多的人可免除徭役；③奖励军功，对有军功者授予爵位并赏赐土地；④确立县制，由国君直接委派官吏治理；⑤统一度量衡；⑥改革户籍制度，加强对人民的管理；⑦严明法度，禁止私斗；⑧废除井田制，允许土地自由买卖。

（3）商鞅从政治、经济、军事等方面进行了改革，请把材料三中的措施的序号填到对应的表格中：（6 分）

	商鞅变法的主要内容（填序号）
政治	
经济	
军事	

材料四　（商鞅变法）行之十年，秦民大悦。道不拾遗，山无盗贼，家给人足。民勇于公战，怯于私斗，乡邑大治。

——《史记·商君列传》

（商鞅变法）数年之间，国富兵强，天下无敌。

——《通典·食货》

商鞅相孝公，为秦开帝业。　——王充《论衡》

（4）依据材料四并结合所学，分析商鞅变法的作用。（6 分）